12-①	2けたまでのたしざん・ひきざん①
がつ　　にち　（　　）	なまえ

けいさんをしましょう。

23 ＋ 4

30 ＋ 20

40 ＋ 30

61 ＋ 7

73 ＋ 2

50 ＋ 30

32 ＋ 5

40 ＋ 20

12-②	2けたまでのたしざん・ひきざん②
がつ　　にち　（　　）	なまえ

けいさんをしましょう。

30 ＋ 50

21 ＋ 8

50 ＋ 20

43 ＋ 5

82 ＋ 7

10 ＋ 50

20 ＋ 70

54 ＋ 4

12-③	2けたまでのたしざん・ひきざん③
がつ　　にち　（　　）	なまえ

けいさんをしましょう。

29 － 4

90 － 20

40 － 30

68 － 3

73 － 2

70 － 30

37 － 5

40 － 20

12-④	2けたまでのたしざん・ひきざん④
がつ　　にち　（　　）	なまえ

けいさんをしましょう。

80 － 50

39 － 8

50 － 30

48 － 5

76 － 4

90 － 40

60 － 50

55 － 3

12-⑤	2けたまでのたしざん・ひきざん⑤
がつ　　にち　（　　）	なまえ

けいさんをしましょう。

24 ＋ 3

30 ＋ 30

63 ＋ 5

20 ＋ 50

67 － 4

80 － 30

86 － 3

50 － 20

12-⑥	2けたまでのたしざん・ひきざん⑥
がつ　　にち　（　　）	なまえ

けいさんをしましょう。

73 ＋ 4

60 ＋ 30

20 ＋ 60

34 ＋ 2

97 － 2

70 － 40

60 － 30

58 － 6

12-⑦	2けたまでのたしざん・ひきざん⑦
がつ　　にち　（　　）	なまえ

けいさんをしましょう。

92 ＋ 3

60 － 40

99 － 7

20 ＋ 30

10 ＋ 80

80 － 60

57 － 3

83 ＋ 4

12-⑧	2けたまでのたしざん・ひきざん⑧
がつ　　にち　（　　）	なまえ

けいさんをしましょう。

87 － 4

20 ＋ 40

90 － 70

53 ＋ 6

70 － 60

10 ＋ 70

42 ＋ 4

47 － 6

12-⑨	なんじなんぷん①
がつ　　にち　（　　）	なまえ

□のなかのすうじをなぞりましょう。

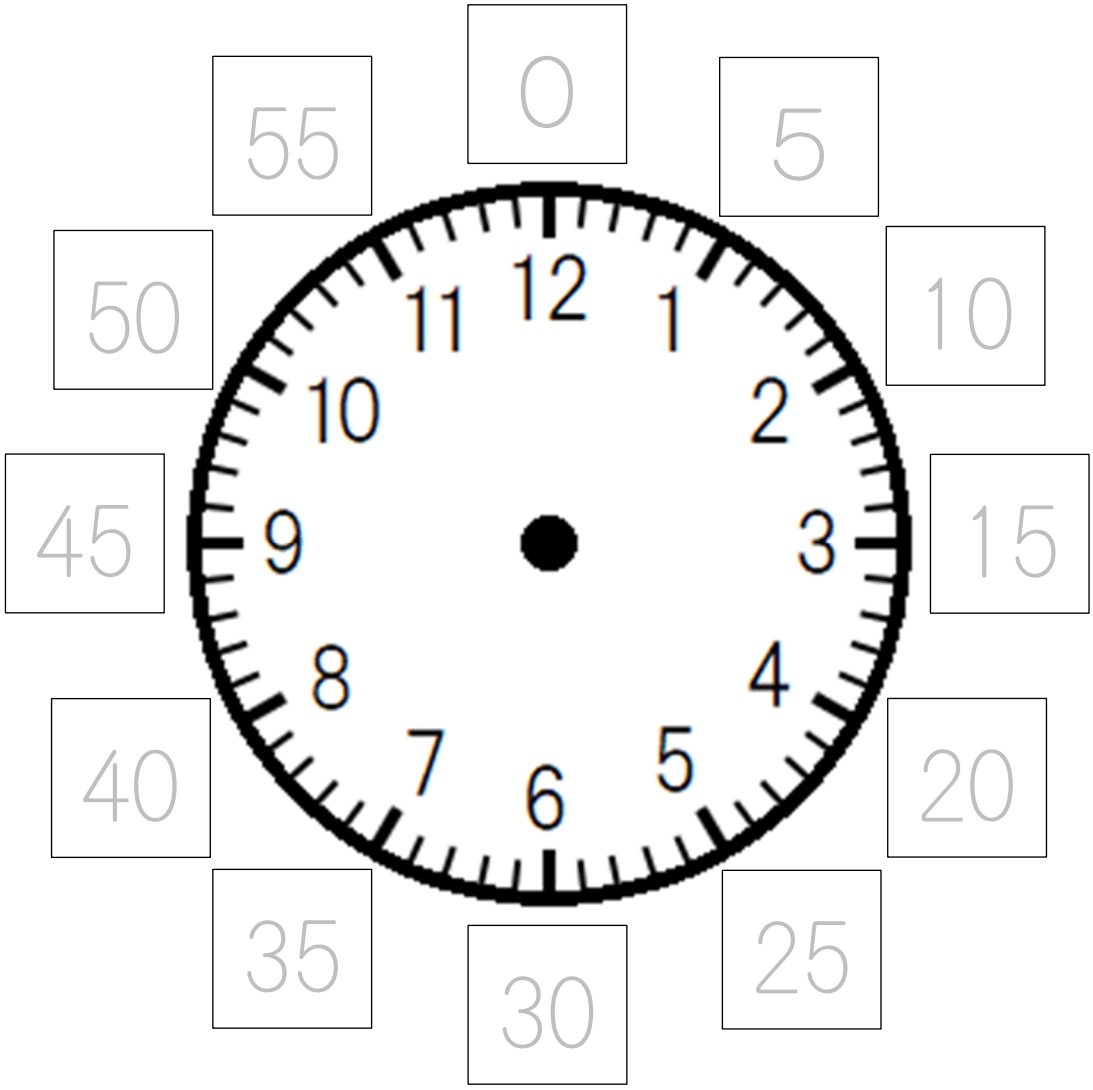

12-⑩	なんじなんぷん②
がつ　　にち　（　　）	なまえ

□のなかにすうじをうめましょう。

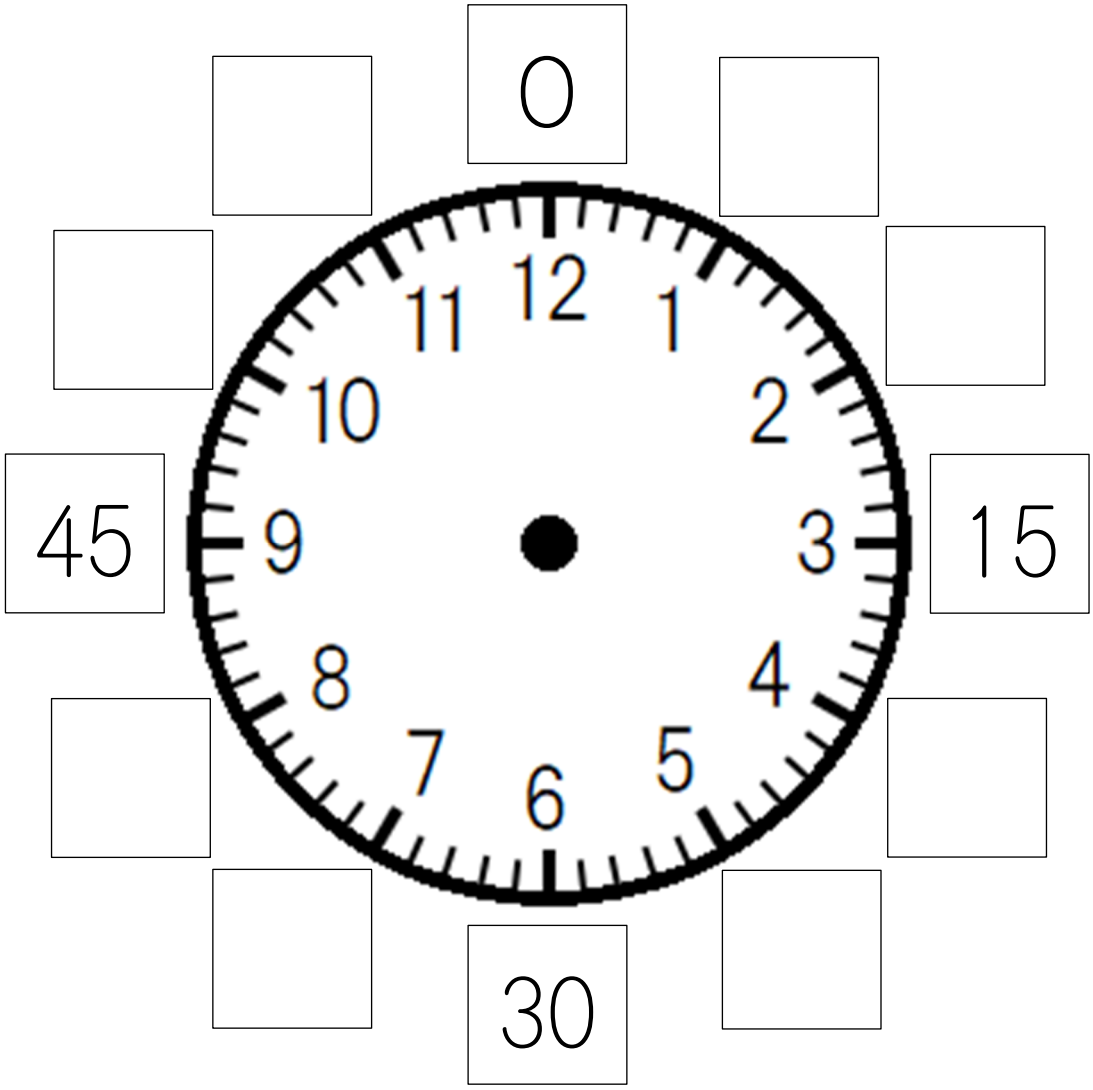

12-⑪	なんじなんぷん③
がつ　　にち　（　　）	なまえ

□のなかにすうじをうめましょう。

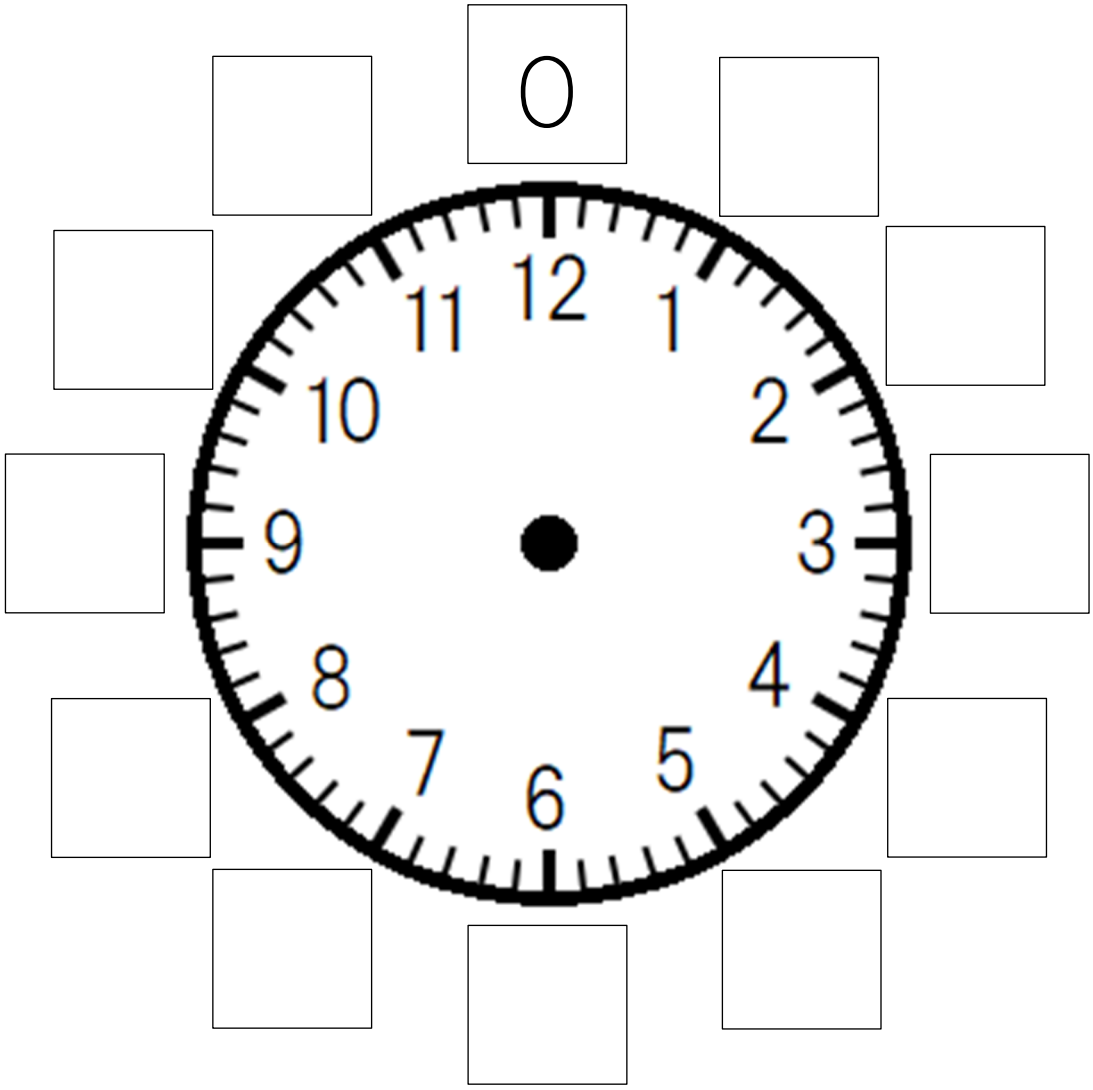

12-⑫	なんじなんぷん④
がつ　　にち　（　　）	なまえ

えとじこくをむすびましょう。



7じ 15 ふん　　7じ 25 ふん　　7じ 45 ふん

12-⑬	なんじなんぷん⑤
がつ　　にち　（　　）	なまえ

えとじこくをむすびましょう。







3じ 45 ふん　　9じ 45 ふん　　7じ 45 ふん

12-⑭	なんじなんぷん⑥
がつ　　にち　（　　）	なまえ

えとじこくをむすびましょう。



3じ 55 ふん　　3じ 45 ふん　　3じ 50 ふん

12-⑮	なんじなんぷん⑦
がつ　　にち　（　　）	なまえ

とけいを　よみましょう。



12-⑯	なんじなんぷん⑧
がつ　　にち　（　　）	なまえ

とけいを　よみましょう。

12-⑰	なんじなんぷん⑨
がつ　　にち　（　　）	なまえ

とけいを　よみましょう。

12-⑱	ぶんをよんでけいさんしましょう①

がつ　　にち　（　　）	なまえ

ぶんをよんで　けいさんしましょう。

かずやくんは、まえから3ばんめにいます。

かずやくんのうしろに7にんいます。

みんなでなんにんいますか。

こたえ　　にん

かずやくんのまえに5にんいます。

かずやくんのうしろに8にんいます。

みんなでなんにんいますか。

こたえ　　にん

12-⑲	ぶんをよんでけいさんしましょう②
がつ　　にち　（　　）	なまえ

ぶんをよんで　けいさんしましょう。

みんなで 12 にんいます。

かずやくんは、まえから5ばんめにいます。

かずやくんのうしろになんにんいますか。

こたえ

みんなで 13 にんいます。

かずやくんは、うしろから4ばんめにいます。

かずやくんのまえになんにんいますか。

こたえ

12-⑳	ぶんをよんでけいさんしましょう③
がつ　　にち　（　　）	なまえ

ぶんをよんで　けいさんしましょう。

あかぐみは、7てんでした。

しろぐみは、あかぐみより4てんおおかったそうです。

しろぐみはなんてんですか。

こたえ

あかぐみは、12 てんでした。

しろぐみは、あかぐみより7てんすくなかったそうです。

しろぐみはなんてんですか。

こたえ